2年算数

分　数　①

名　前　（　　）

① ㋐の $\frac{1}{2}$ の大きさになっているのは、どれですか。

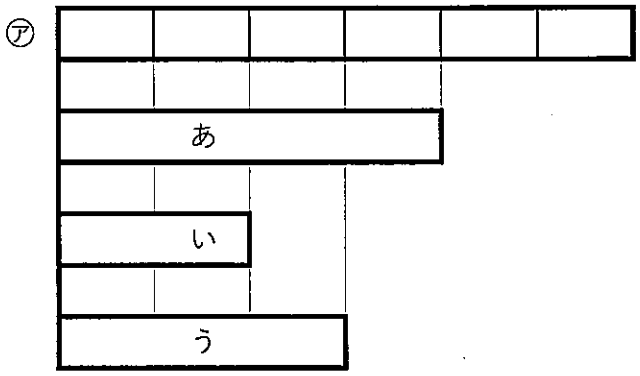

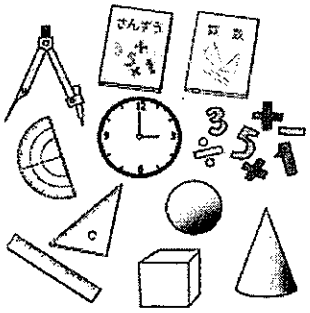

② ㋑の $\frac{1}{3}$ の大きさになっているのは、どれですか。

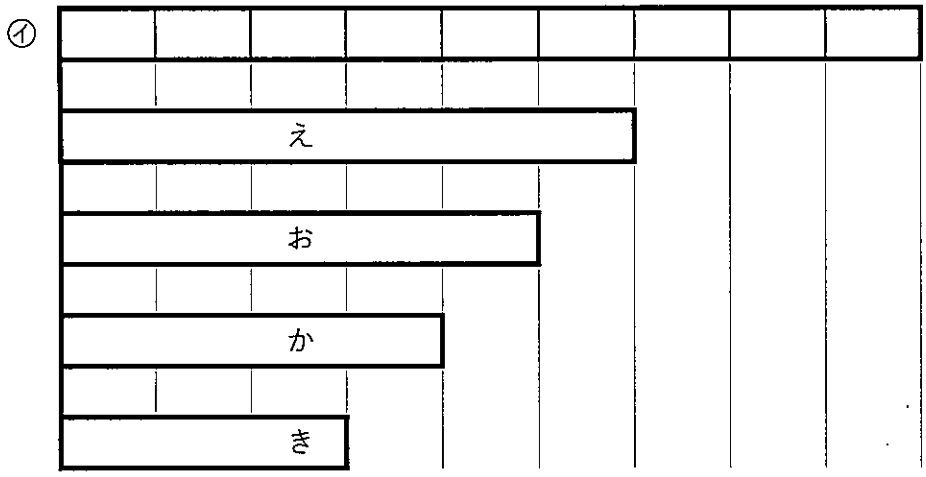

③ $\frac{1}{2}$ のテープをさらに半分におると、どんな大きさになりますか。

④ $\frac{1}{3}$ のテープをさらに半分におると、どんな大きさになりますか。
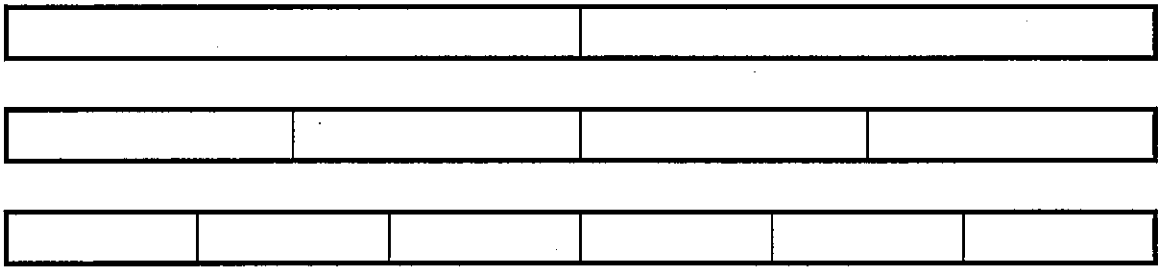
⑤ 次の大きさに色をぬりましょう。